Централизованное тестирование по географии, 2013

При выполнении заданий с кратким ответом впишите в поле для ответа цифру, которая соответствует номеру правильного ответа, или число, слово, последовательность букв (слов) или цифр. Ответ следует записывать без пробелов и каких-либо дополнительных символов.

В заданиях, где нужно установить соответствие между двумя столбцами, ответ запишите в виде сочетания букв и цифр, соблюдая алфавитную последовательность букв левого столбца. Некоторые данные правого столбца могут использоваться несколько раз или не использоваться вообще. Например: А1Б1В4Г2.

Если вариант задан учителем, вы можете вписать или загрузить в систему ответы к заданиям с развернутым ответом. Учитель увидит результаты выполнения заданий с кратким ответом и сможет оценить загруженные ответы к заданиям с развернутым ответом. Выставленные учителем баллы отобразятся в вашей статистике.

1.
На рисунке точка 1 расположена:

1) на север от точки 2; 2) на северо-восток от точки 2;
3) в Восточном полушарии; 4) в Южном полушарии.

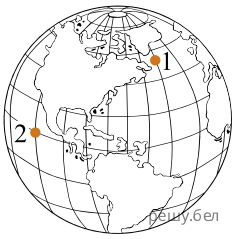

Карта составлена по состоянию на 01.01.2013

2. Географический объект, изображенный на плане местности условным знаком, — это:

1) луг; 2) сад; 3) смешанный лес; 4) сплошные заросли кустарника.

3. Форма рельефа, которая относится к области палеозойской складчатости, — это:

1) Эфиопское нагорье; 2) горы Карпаты; 3) горы Саяны; 4) Армянское нагорье.

4. Для антарктического климатического пояса характерна(-о):

1) сезонная смена воздушных масс; 2) средняя температура воздуха в июле внутри пояса до −60 °С;
3) годовое количество осадков во внутренних районах 500—600 мм; 4) область пониженного атмосферного давления.

5. Определите ВЕРНОЕ утверждение:

1) для равнинных рек характерны широкие долины и небольшой уклон;
2) карстовые озера образуются в результате движений земной коры;
3) ледники не образуются в горах, расположенных в тропических широтах;
4) межпластовые подземные воды залегают в первом от поверхности водоносном горизонте.

6. Для природной зоны переменно-влажных (в том числе муссонных) лесов субтропического пояса характерно(-ы):

1) выпадение максимального количества осадков зимой; 2) отрицательные средние температуры воздуха зимой;
3) формирование зональных почв — красноземов и желтоземов; 4) распространение типичных растений — ели и кедра.

7. Среди перечисленных стран наиболее низкий уровень урбанизации характерен для:

1) США, Канады; 2) Японии, Франции; 3) Узбекистана, Казахстана; 4) Австралии, Ливии.

8.

Территория государства, столицей которого является город Стокгольм, на карте обозначена точкой с цифрой:

1) 1 2) 2 3) 3 4) 4

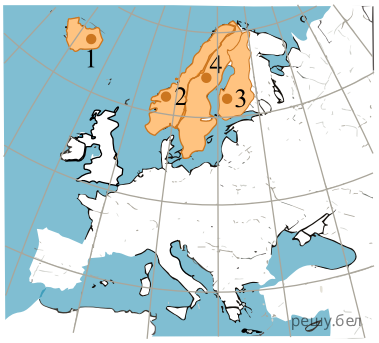

Карта составлена по состоянию на 01.01.2013

9. Укажите вариант ответа, в котором все государства входят в состав БРИКС:

1) Индонезия, Австралия; 2) Франция, Индия; 3) Бразилия, Китай; 4) Мексика, ЮАР.

10. География лесной промышленности мира характеризуется:

1) преобладанием лиственных пород деревьев в Северном лесном поясе;
2) лидерством Юго-Западной Азии по площади лесов;
3) размещением целлюлозно-бумажных комбинатов вблизи источников воды;
4) отсутствием использования вторичного сырья.

11. Среди указанных государств крупнейшими по размерам валового сбора кукурузы являются:

1) США, Китай; 2) Канада, Германия; 3) Мексика, Франция; 4) Украина, Молдова.

12. Для железнодорожного транспорта в транспортной системе мира характерна(-о):

1) высокая себестоимость перевозок; 2) сильная зависимость от погодных условий; 3) высокая грузоподъемность;
4) широкое развитие в высокогорных районах.

13.

Природная зона Африки, в которой на сероземах произрастают отдельные пучки злаков и колючие кустарники, расположена в основном в пределах климатического пояса, обозначенного на карте цифрой:

1) 1 2) 2 3) 3 4) 4

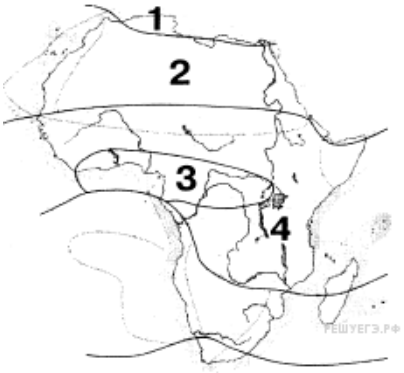

Карта составлена по состоянию на 01.01.2013

14. Укажите ВЕРНОЕ утверждение для социально-экономического развития Африки:

1) на континенте отсутствуют города с населением более 10 млн человек;
2) берберы в основном проживают в Южной Африке;
3) трансафриканская автомагистраль связывает столицы государств Северной Африки;
4) в структуре сельского хозяйства ЮАР ведущую роль играет растениеводство.

15. Для природы Австралии характерно:

1) расположение в зоне столкновения литосферных плит; 2) наличие незначительных запасов свинца;
3) наличие густой речной сети;
4) расположение природной зоны жестколистных вечнозеленых лесов и кустарников на юго-западе.

16. Для социально-экономического развития Австралийского Союза характерен(-но; —на):

1) высокий естественный прирост населения;
2) развитие металлургии как одной из отраслей специализации промышленности;
3) преобладание технических культур в структуре посевных площадей;
4) ведущая роль внутреннего водного транспорта в перевозке грузов.

17. В Антарктиде и у ее берегов обитают:

1) морские львы и белые медведи; 2) песцы и волки; 3) пингвины и синие киты;

4) буревестники и снежные бараны.

18.
В пределах Гвианского плоскогорья расположен пункт, обозначенный на карте цифрой:

1) 1 2) 2 3) 3 4) 4

Карта составлена по состоянию на 01.01.2013

19. Социально-экономическое развитие стран Южной Америки характеризуется:

1) преобладанием католиков среди верующего населения;
2) унитарной формой административно-территориального устройства в Аргентине;
3) ведущей ролью атомной энергетики в хозяйстве Бразилии;
4) ведущей ролью железнодорожного транспорта в перевозке грузов и пассажиров.

20. Для социально-экономического развития Бразилии характерен(-на; —но):

1) низкий удельный вес городского населения; 2) однородный расовый и этнический состав населения;
3) специализация цветной металлургии на производстве алюминия; 4) мировое лидерство по поголовью свиней.

21. Определите ОШИБОЧНОЕ утверждение для Северной Америки:

1) наличие запасов железных руд на полуострове Лабрадор;
2) на климат центральной части материка оказывает влияние Северный Ледовитый океан;
3) река Колорадо — самая полноводная река бассейна Тихого океана;
4) суслики и броненосцы — обитатели природной зоны полупустынь и пустынь.

22. ОБЩИМ для социально-экономического развития Мексики и Канады является:

1) высокий естественный прирост населения; 2) производство большей части электроэнергии на АЭС;
3) мировое лидерство по производству калийных удобрений; 4) наличие сети трубопроводного транспорта.

23. Река Днепр впадает в море:

1) Балтийское; 2) Средиземное; 3) Черное; 4) Северное.

24. Для природы Европы характерна(-о):

1) приуроченность большей части Скандинавского полуострова к щиту древней платформы;
2) господство восточного переноса воздушных масс над территорией Польши в течение года;
3) принадлежность реки Рейн к бассейну Северного Ледовитого океана;
4) распространение на Кольском полуострове природной зоны смешанных и широколиственных лесов.

25. Для социально-экономического развития стран Северной Европы характерен(-но; —на):

1) высокий уровень рождаемости в Дании; 2) формирование основной части ВВП в сфере нематериального производства;
3) низкий уровень развития машиностроения в Швеции;
4) ведущая роль растениеводства в производстве товарной продукции сельского хозяйства в Финляндии.

26. Озера, расположенные в азиатской части Евразии, — это:

1) Боденское и Дривяты; 2) Нарочь и Ладожское; 3) Иссык-Куль и Байкал; 4) Освейское и Долгое.

27. ОБЩИМ в социально-экономическом развитии Японии и Китая является:

1) высокий удельный вес занятых в сельском хозяйстве; 2) ведущая роль ТЭС в структуре производства электроэнергии;
3) развитие черной металлургии преимущественно на привозном сырье;
4) мировое лидерство по размерам валового сбора пшеницы.

28. К территории России относятся:

1) Восточно-Европейская равнина и горы Хибины; 2) Кольский полуостров и Малоазиатское нагорье;
3) река Волга и горы Тянь-Шань; 4) река Западный Буг и Прикаспийская низменность.

29. Для социально-экономического развития России характерно:

1) преобладание православных среди верующих; 2) импорт большей части сырья для химии органического синтеза;
3) сосредоточение основных посевов пшеницы в лесной зоне;
4) отсутствие крупных морских портов в акватории Балтийского моря.

30. Области Беларуси, граничащие с Украиной:

1) Гродненская и Брестская; 2) Брестская и Гомельская; 3) Гомельская и Могилевская; 4) Брестская и Минская.

31. В пределах Оршанской впадины расположены(-а):

1) Свенцянские гряды; 2) Прибугская равнина; 3) Витебская возвышенность; 4) Лидская равнина.

32. Для климата Беларуси характерно:

1) увеличение суммарной солнечной радиации с севера на юг; 2) преобладание ветров южного направления летом;
3) избыточное увлажнение территории в течение года; 4) выпадение наибольшего количества осадков в феврале.

33. Для гидрографии Беларуси характерно(-ен):

1) наличие рек длиной более 500 км в пределах страны;
2) преобладание у рек на большей части территории грунтового питания; 3) максимальный речной сток зимой;
4) преобладание озерных котловин ледникового происхождения в южной части.

34.

Физико-географическая провинция Беларуси, характеризующаяся наибольшей увлажненностью среди провинций, где расположена самая низкая точка по абсолютной высоте, обозначена на карте цифрой:

1) 1 2) 2 3) 3 4) 4

Карта составлена по состоянию на 01.01.2013

35. Для населения Беларуси характерен(-на; —но):

1) высокий уровень урбанизации; 2) низкий удельный вес лиц трудоспособного возраста в обшей численности;
3) более высокая продолжительность жизни мужчин, чем женщин; 4) отсутствие городов многофункционального типа.

36. Для промышленности Беларуси характерно:

1) развитие цветной металлургии как одной из отраслей специализации;
2) наличие нескольких крупных центров по производству грузовых автомобилей;
3) отсутствие предприятий по производству шин;
4) размещение предприятий по производству масла и сыра только в крупных по численности населения городах.

37. Для сельского хозяйства Республики Беларусь характерно(-ен; —на):

1) выращивание льна-долгунца преимущественно в северной части;
2) высокий удельный вес земель под техническими культурами в структуре посевных площадей;
3) наибольшая концентрация посевов картофеля в Могилевской области;
4) низкий удельный вес говядины в структуре производства мяса.

38. Для транспорта Беларуси характерна(-о):

1) перевозка большей части грузов на короткие и средние расстояния автомобильным транспортом;
2) наибольшая густота автомобильных дорог с твердым покрытием в Брестской области;
3) ведущая роль речного транспорта во внутренних грузоперевозках в северных районах;
4) использование авиационного транспорта преимущественно для внутренних грузоперевозок.

39. Запишите название полуострова, обозначенного на картосхеме точкой.



Карта составлена по состоянию на 01.01.2013

40. Расположите последовательно с севера на юг следующие географические объекты:
1) Красное море;
2) озеро Эри;
3) полуостров Кейп-Йорк;
4) остров Огненная Земля.

Ответ запишите в виде последовательности цифр. Например: 4213.

41. Установите соответствие.

Материк	Географический объект
А) Африка	1) национальный парк Крюгера
Б) Северная Америка	2) Кольский полуостров
В) Южная Америка	3) озеро Виннипег
Г) Австралия	4) река Муррей
	5) Гвианское плоскогорье

Ответ запишите в виде сочетания букв и цифр, соблюдая алфавитную последовательность букв левого столбца. Не все данные правого столбца могут быть при этом использованы. Например: А3Б1В5Г2.

42. Продукция, произведенная предприятием, отраслью, народным хозяйством за определенный период времени (месяц, год), — это ... продукция.
Ответ запишите словом (сочетанием слов).

43. Государство расположено на стыке двух материков. Основная часть его населения сконцентрирована на 5 % территории; важное значение в сельском хозяйстве имеет возделывание длинноволокнистого хлопчатника. Столица государства — ... .

Запишите столицу государства. Например: Париж.

44. Установите соответствие.

Столица государства	Регион
А) Рим	1) Юго-Западная Азия
Б) Абуджа	2) Южная Европа
В) Хельсинки	3) Африка
Г) Париж	4) Северная Европа
	5) Западная Европа

Ответ запишите в виде сочетания букв и цифр, соблюдая алфавитную последовательность букв левого столбца. Не все данные правого столбца могут быть при этом использованы. Например: А2Б1В5Г4.

45. Установите соответствие.

Характеристика государства	Государство
А) унитарная республика, мировой лидер по производству хлопка-волокна	1) Украина
Б) федеративное государство, обладающее крупнейшими в мире запасами природного газа	2) Россия
В) федеративное государство, одно из ведущих в Европе в области автомобилестроения	3) Китай
Г) унитарная республика, крупный производитель и экспортер меди	4) Германия
	5) Польша

Ответ запишите в виде сочетания букв и цифр, соблюдая алфавитную последовательность букв левого столбца. Не все данные правого столбца могут быть при этом использованы. Например: А2Б1В5Г4.

46. Характерный для Беларуси процесс сокращения численности населения за счет превышения смертности над рождаемостью — это ... .

Ответ запишите словом (сочетанием слов).

47. Установите соответствие между географическим объектом, отмеченным на карте Беларуси точкой с буквой, и его названием:

Карта составлена по состоянию на 01.01.2013

1) озеро Нарочь;
2) Краснослободское водохранилище;
3) река Ясельда;
4) река Березина.

Ответ запишите в виде сочетания букв и цифр, соблюдая алфавитную последовательность букв. Например: А3Б2В4Г1.

48. Установите соответствие.

Продукция	Центр производства
А) телевизоры	1) Брест
Б) ковры	2) Жлобин
В)спички	3) Жодино
Г) искусственный мех	4) Минск
	5) Пинск

Ответ запишите в виде сочетания букв и цифр, соблюдая алфавитную последовательность букв левого столбца. Не все данные правого столбца могут быть при этом использованы. Например: А2Б3В1Г5.

49. Воздух, имеющий температуру +30 °С, поднимается от подножия по склону горного хребта. Определите высоту горного хребта в метрах, если на его вершине температура воздуха опускается до 0 °С.

Ответ запишите в виде целого числа. Например: 1500.

50. Самолет вылетел с Северного полюса и пролетел строго на юг вдоль меридиана 12 210 км. Определите географическую широту пункта, в котором самолет приземлился.

Ответ запишите в виде целого числа. Например: 70.